5A 黃芷晴

有分數就有數量　　27-11-2018

魚 = 55

金 = $\frac{2}{5}$

錦 = ?　? = 答案

1 $55 - 55 \times \frac{2}{5}$

$= 55 - 22$

$= \underline{\underline{33}}$

2 $55 \times (\frac{5}{5} - \frac{2}{5})$

$= 55 \times \frac{3}{5}$

$= \underline{\underline{33}}$

☆☆閱☆☆☆
12 DEC 2018

原因：
1. 魚有55條，金有$\frac{2}{5}$，所以是$55 - 55 \times \frac{2}{5}$。

原因：
2. 把魚分成5份，在減去金的數量$\frac{1}{5}$ = $55 \times (\frac{5}{5} - \frac{2}{5})$。

5B 馮佩珊

面積　　22-10-2018

邊長
8 × 8 = 64

正方形面積：邊長 × 邊長



邊長
16 × 4 = 64

正方形周界：邊長 × 4



周界
(10 + 4) × 2 = 28

28 ÷ 2 − 10 = 4



面積
10 × 4 = 40

40 ÷ 10 = 4

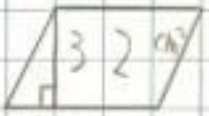

底 × 高 = 面積
8 × 4 = 32
32 ÷ 8 = 4
面

面 ÷ 底 = 高

☆☆閱☆☆
12 DEC 2018

5C 陳頌瑤

梯形面積

6-11-2018

梯形面積公式：
(上底加下底)乘高除2

小提示：

1. 如果2個梯形拼成平行四邊形，當是平行四邊形計算，計完後只需除回2，就能計出梯形面積

很好！

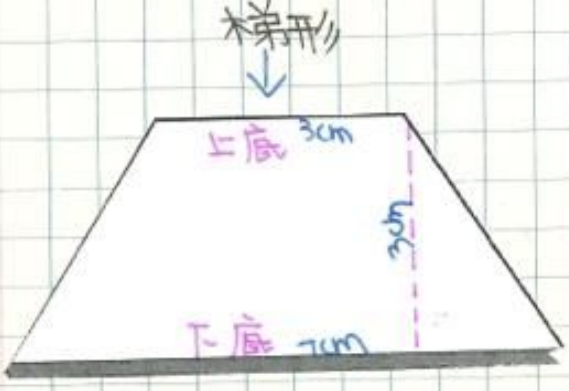

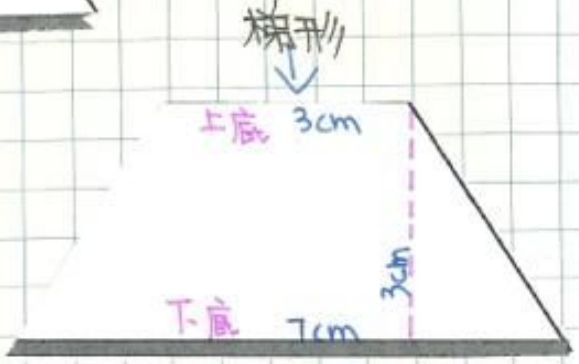

試算：

$(7+3)\times 3\div 2$

$=10\times 3\div 2$

$=30\div 2$

$=15\ cm^2$

閱 6/11

5D 謝淑懷

分數加減應用題　　5-11-2018

1.

紅 $6\frac{7}{12}$	藍 ?

$18\frac{5}{6}$

$18\frac{5}{6} - 6\frac{7}{12}$

$= 18\frac{10}{12} - 6\frac{7}{12}$

$= 12\frac{3}{12}$

$= 12\frac{1}{4}$

RED

BLUE

陳 8/11